RISSE LESEN
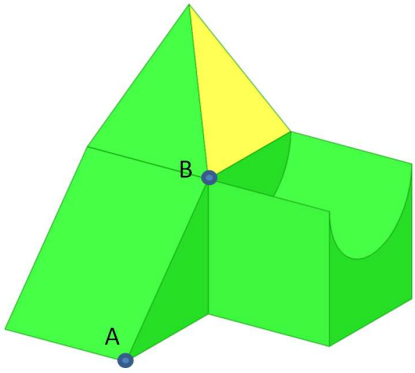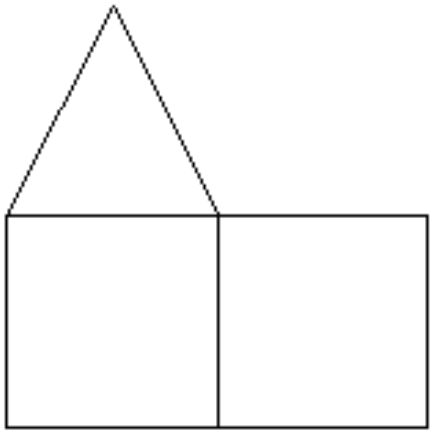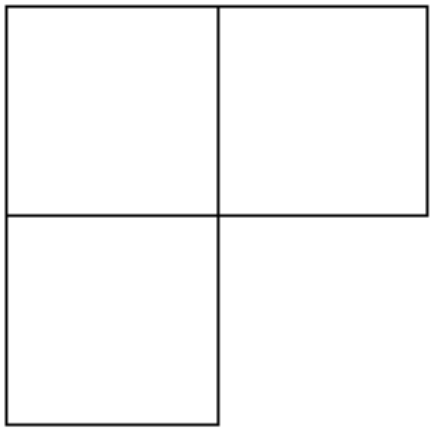
- Ergänze im Schrägriss die Achsen x,y,z des Koordinatensystems.
- Prüfe Grund- und Aufriss auf Richtigkeit; korrigiere bzw. ergänze die Risse bei Bedarf.
- Ergänze den Kreuzriss.
- Färbe die markierte gelbe Fläche in den Hauptrissen.
- Beschrifte die Kante AB in den 3 Hauptrissen.
- Wie lang ist die Kante AB?